Preparación para el Acceso a las Administraciones Públicas

Planes de Formación de las Adminstraciones Públicas

Cursos de Promoción Profesional

Informática

Orientación Laboral

Formación Laboral

C.S.I.T. Unión Profesional

CENTRO DE FORMACIÓN: C/ GARCILASO, 10 (LOCAL CALLE): 91 591 00 70
SEDE CENTRAL: C/ SAGASTA, 13 - 6ª PLANTA- TLFNS: 91 594 39 95 / 39 22 - 28004 MADRID

TIEMPO
50 MIN

En los siguientes dibujos deberá deducir la trayectoria de la línea sabiendo que si el trazo es circular describe una circunferencia perfecta y si es recto una línea recta. Marque la alternativa que cree atraviesa el punto negro y si opina que ninguna lo hace marque D en su hoja de respuestas.

1)

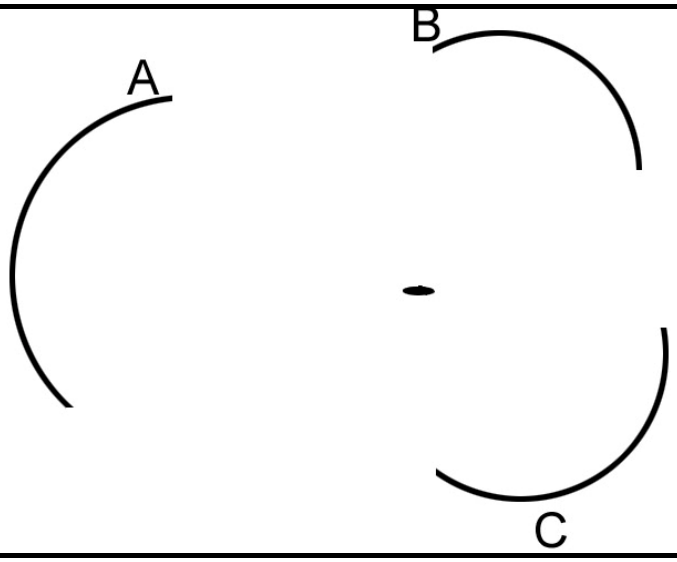

2)

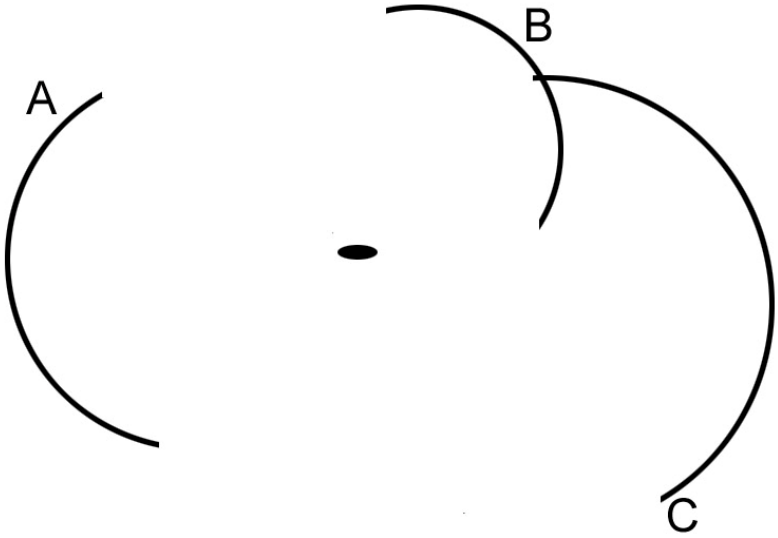

3)



4)

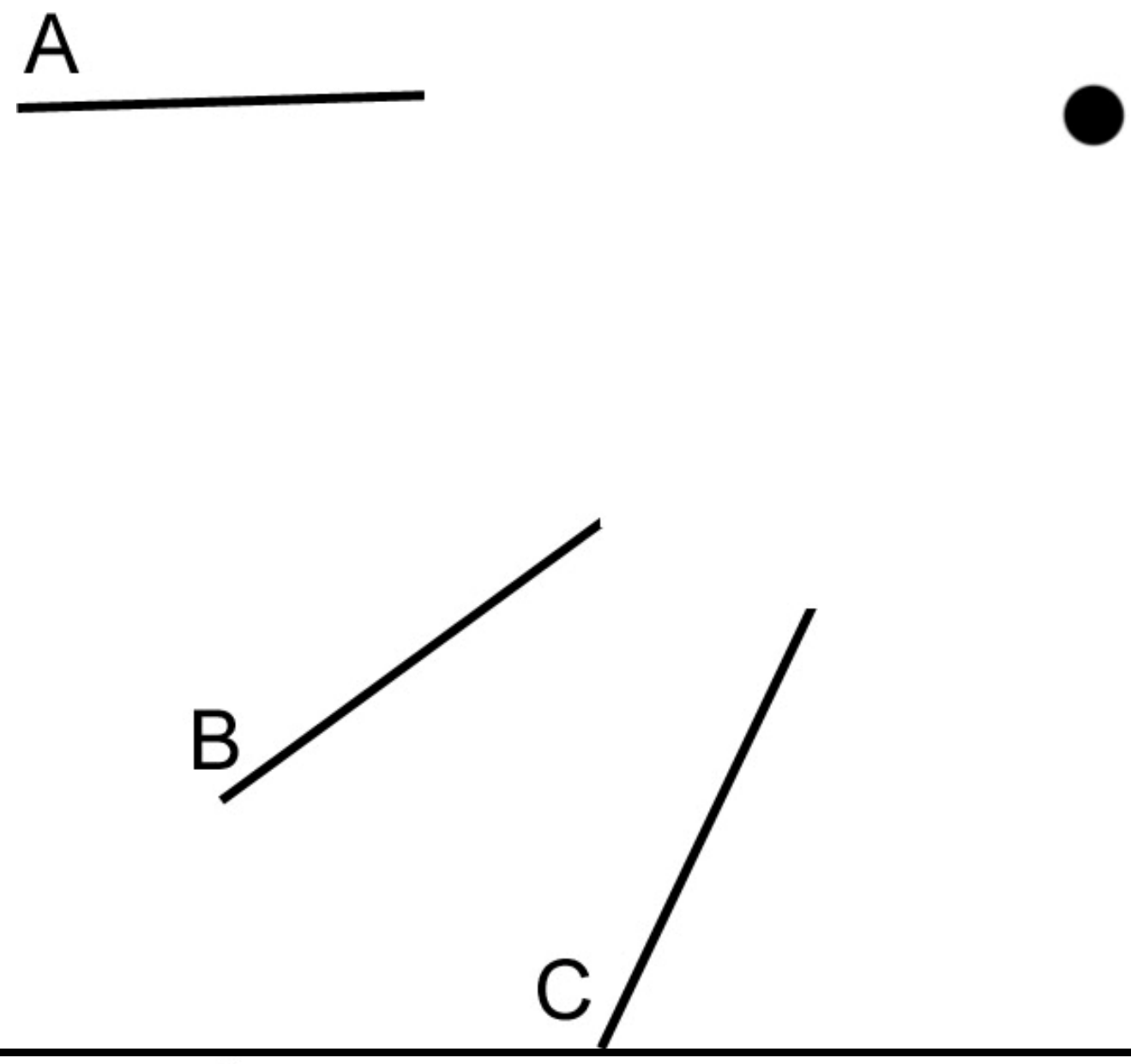

5)



Responda a las siguientes preguntas:

6) ¿Cuantas veces aparece la letra “b”?
bdbdbdbbbbbbbbbbbbbbbbbbbbdbdbdbdbdbdbdbdbbdbdbdbdbdbdbdbbdbdbdbdbdbdbbdbdb
dbbbdbdbdbbdb

a) 55
b) 56
c) 57
d) 58

7) ¿Cuántas veces aparece la letra “q”
pqpqpqpqqqpqpqpqpqpqpppqpqpqqqpqpqpqpqpqpqpqpqpqpqpqppqpqpqpqpqpqpqpqpqpqqpqpq
pqpqpqpqpqpqp
   a) 43
   b) 44
   c) 45
   d) 46

8) ¿Cuántas veces aparece la letra “p”
ppqpqpqpppqpqpqpqppqpqpqpqppqppqpqpqppqppqpqppqppqpqpqpqpqppqpqpqpqpqpqppqp
qpqpqppqqqqqqp
   a) 48
   b) 51
   c) 50
   d) 49

9) ¿Cuántas veces aparece la letra “d”
dbdbdbdbdbbbbdbdbdbdbdbdbdbdbdbdbdbdbdbdbdbdbdbdbdbdbdbdbdbdbdddddbdbdbdb
dbdbdbdbbbbddb
   a) 43
   b) 44
   c) 42
   d) 41

10) ¿Cuántas veces aparece la letra “O”
O0O0OOOOOO0O0O00O0O0O0OOOOO0O0O0O0000O0O0O0OO000O0O0O0O0O0O00
O0O0O0OO00O0
   a) 38
   b) 37
   c) 36
   d) 35

¿Cuántas veces aparece el símbolo

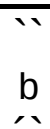

11)

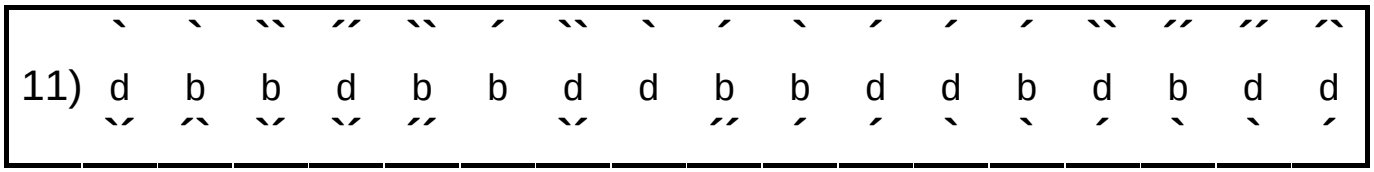

   a) 0
   b) 1
   c) 2
   d) 3

TIEMPO
50 MIN

¿Cuántas veces aparece el símbolo

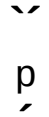

12)

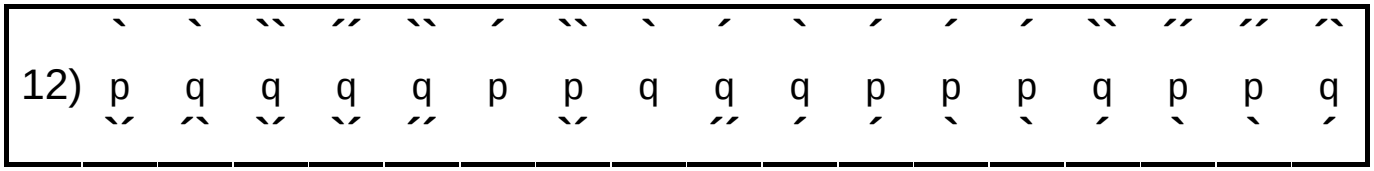

a) 0
b) 1
c) 2
d) 3

¿Cuántas veces aparece el símbolo

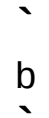

13)

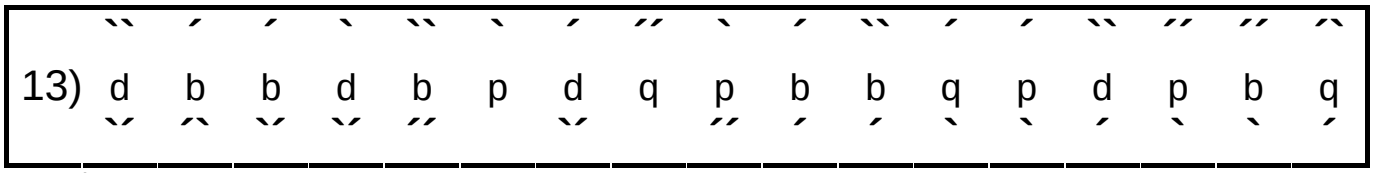

a) 0
b) 1
c) 2
d) 3

¿Cuántas veces aparece el símbolo

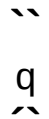

14)

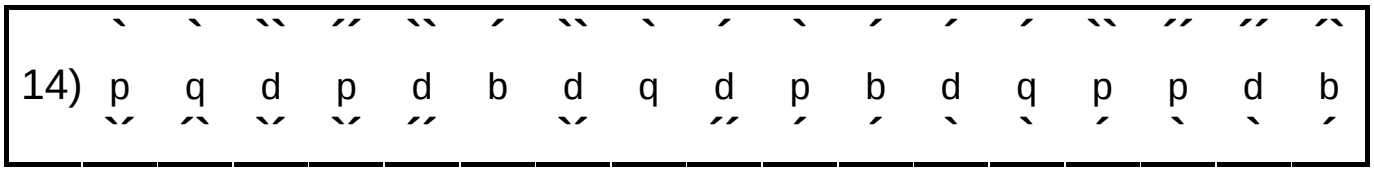

a) 0
b) 1
c) 2
d) 3

TIEMPO
50 MIN

¿Cuántas veces aparece el símbolo d

15) q q p p b b d d q d b p d p d d q

a) 0
b) 1
c) 2
d) 3

A continuación verá dos cuadrados con letras y números, responda a las preguntas que más abajo se le formulan:

AP6	XSW	EDC	RFD	TGF	RTY	HGB	NJU	YHN	UJM	IKL	LOP	PÑL	7YU	OPI
MNB	DEF	RFV	TGB	YHN	UJM	IKL	OPÑ	QWE	RTY	UIO	PÑL	KJH	GFD	SAZ
IOU	UJH	YTG	FRE	WSD	RKL	POD	FPY	HDT	UJH	SLF	UGL	HGF	MNF	8IY
FVD	ER4	5TR	BGH	8I9	OIJ	UYH	65F	NMK	PUB	LOP	KTB	ÑLP	PÑL	OGG

16) Marque la alternativa A, si el código FGR aparece en el cuadrado de arriba y de abajo, B si aparece sólo en el de arriba, C si aparece sólo en el de abajo y D si no aparece en ninguno de los dos.

17) Marque la alternativa A, si el código KIL aparece en el cuadrado de arriba y de abajo, B si aparece sólo en el de arriba, C si aparece sólo en el de abajo y D si no aparece en ninguno de los dos.

18) Marque la alternativa A, si el código POL aparece en el cuadrado de arriba y de abajo, B si aparece sólo en el de arriba, C si aparece sólo en el de abajo y D si no aparece en ninguno de los dos.

19) Marque la alternativa A, si el código QWA aparece en el cuadrado de arriba y de abajo, B si aparece sólo en el de arriba, C si aparece sólo en el de abajo y D si no aparece en ninguno de los dos.

20) Marque la alternativa A, si el código RFV aparece en el cuadrado de arriba y de abajo, B si aparece sólo en el de arriba, C si aparece sólo en el de abajo y D si no aparece en ninguno de los dos.

BGH	YUJ	IKO	PLO	ÑLO	KMJ	NJH	BGH	VGF	CFD	XSA	ZXS	WSX	EDC	RFD
EWQ	ASW	QWA	FGT	LOP	ÑPO	IOK	LOP	ÑLQ	MJI	NJÑ	HPO	BGH	VFR	TGF
YUH	JHU	IKL	OLK	JMN	HJY	TYG	5TR	7YU	JIK	DFC	EWS	ASD	ERD	FTG
HBN	YTG	FRE	DSX	CFD	TGH	UYJ	IKJ	MLO	ÑLO	KIJ	UJ9	POL	IU8	76Y

TIEMPO
50 MIN

Cada pregunta consta de un diagrama de proceso. La figura final de este proceso será una de las que le proponemos más adelante. Tenga en cuenta que para identificarlas en su hoja de respuestas, a veces tendrá que marcar una letra (A, B, C, D, E) y otras veces dos letras (AB, AC, AD).

Todo problema se inicia con una figura a desarrollar, que aparece a la izquierda del diagrama seguida de la flecha de entrada en el diagrama.

Durante el desarrollo del diagrama, se puede encontrar dos tipos de letras (X, Y, Z), que le ordena algún cambio a la figura en proceso; X cambio de forma, Y cambio de Tamaño, Z cambio de color y tipos de números (1, 2, 3) , que le ordena comparar la figura en proceso con la figura de comparación que tiene en la parte izquierda inferior del diagrama y seguir la flecha que indique Sí o No según el resultado (igual o no a la figura de comparación). Por tanto orden de cambio son las letras (X, Y, Z) y orden de comparación son los números (1, 2, 3).

Su tarea consiste en iniciar el proceso de la figura a desarrollar y cumpliendo todas las instrucciones que se le dan mediante las órdenes de cambio y comparación, determinar cuál será la figura resultante.

A continuación se le muestran las ocho posibles figuras y debajo de ellas la letra que deberá anotar en la hoja de respuestas en caso de que crea que sea correcta.

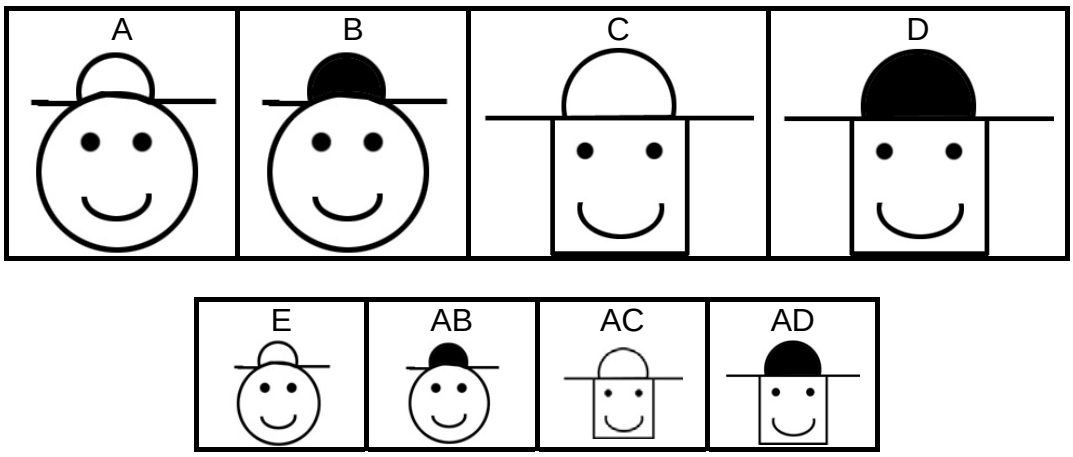

INSTRUCCIONES DE CAMBIO		INSTRUCCIONES DE COMPARACIÓN	
X	Forma	1	Forma
Y	Tamaño	2	Tamaño
Z	Color	3	Color

TIEMPO
50 MIN

21)

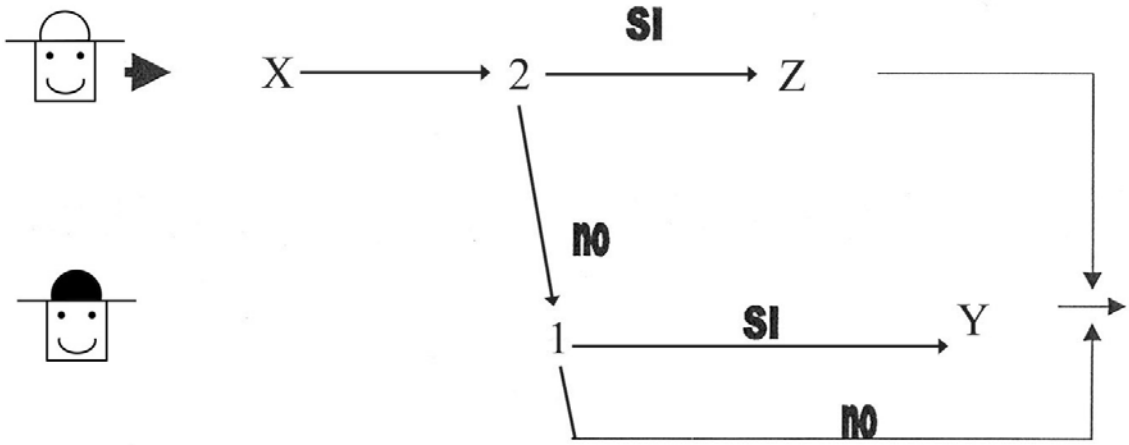

22)

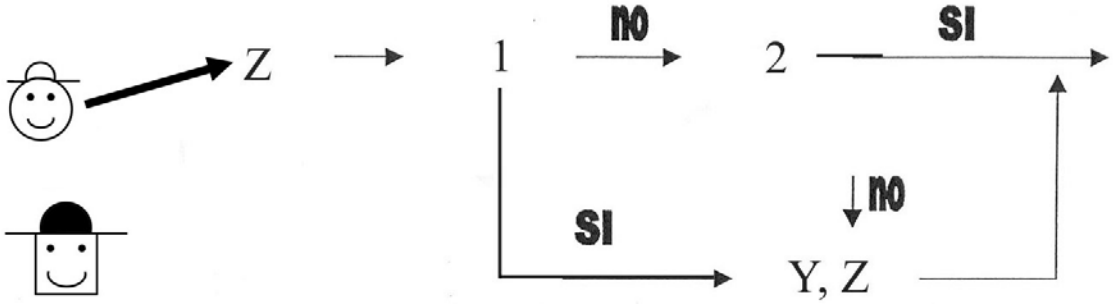

23)

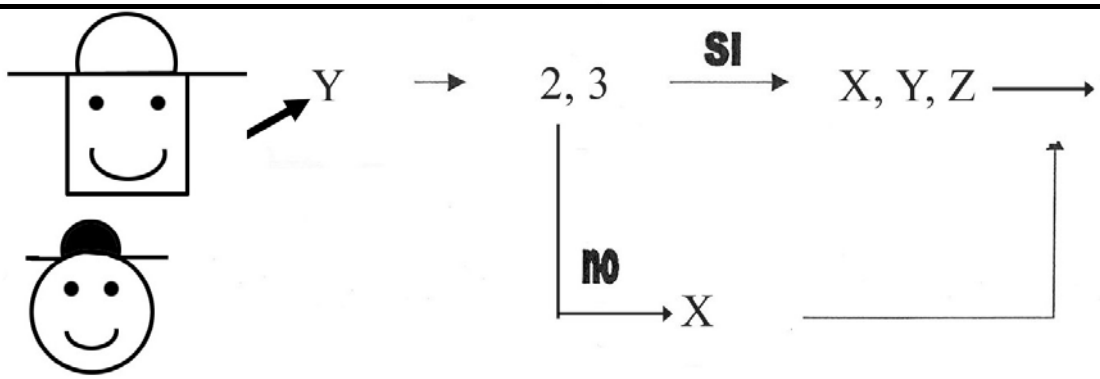

24)

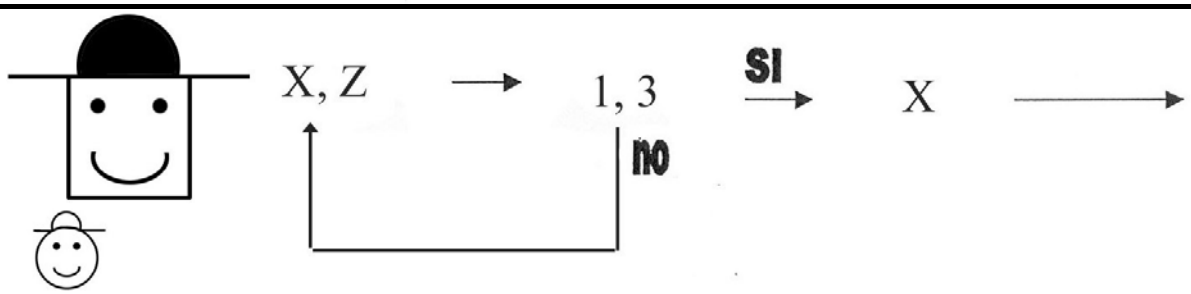

25)

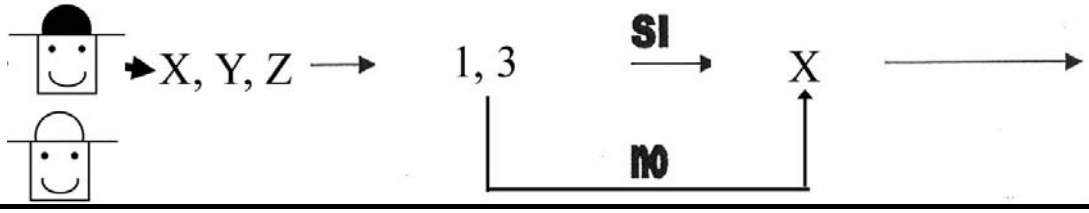

TIEMPO
50 MIN

26)

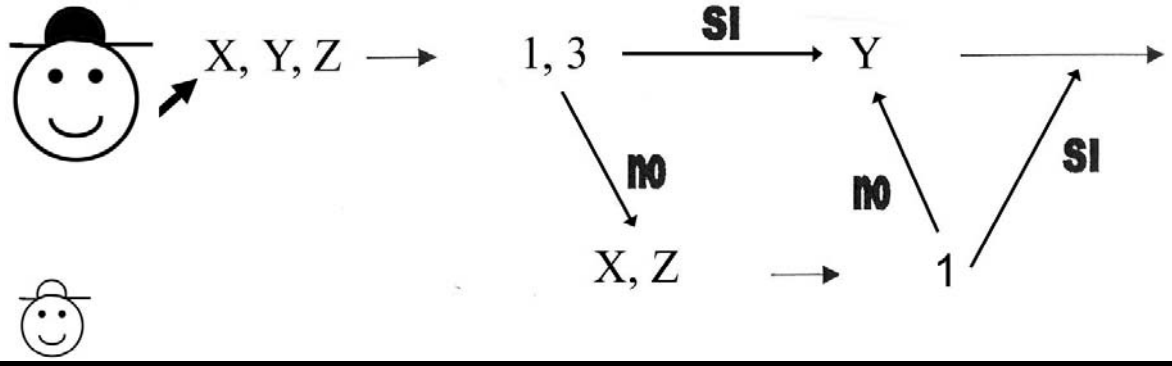

27)

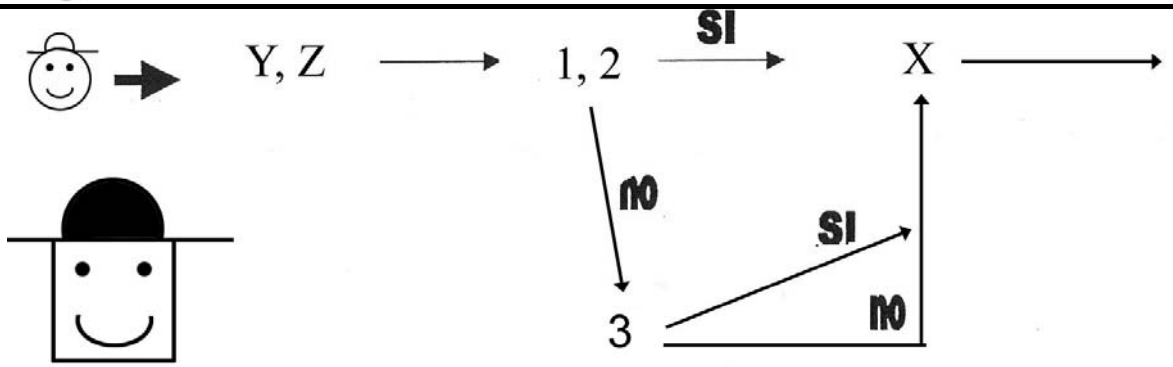

28)

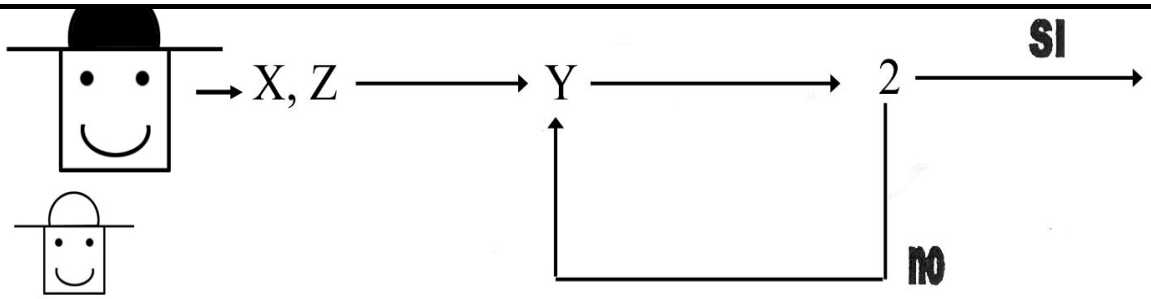

29)

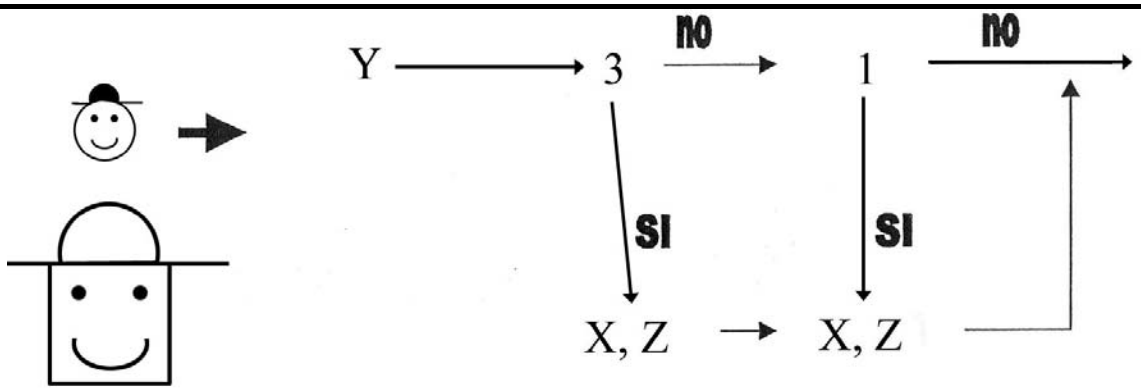

30)

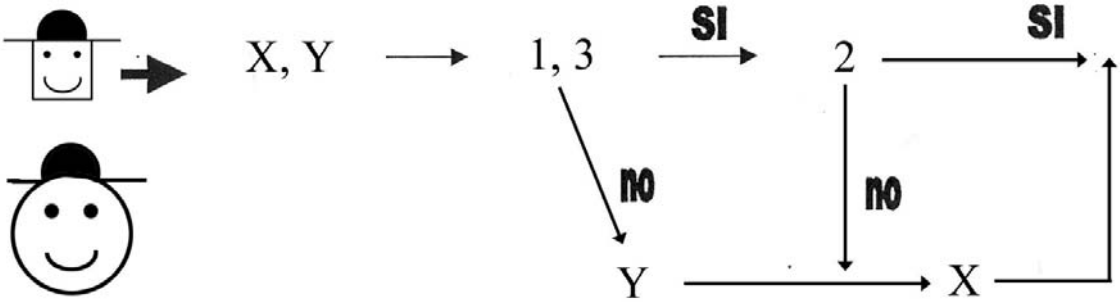

En los siguientes ejercicios encontrará unos recortes que al unirlos de manera adecuada pueden formar o no la figura que aparece debajo pese a que sea con un tamaño diferente. Marque A si todos los recortes forman la figura, B si todos los recortes menos uno forman la figura, C si todos los recortes menos dos forman la figura y D si con los recortes no puedo formar la figura.

31)

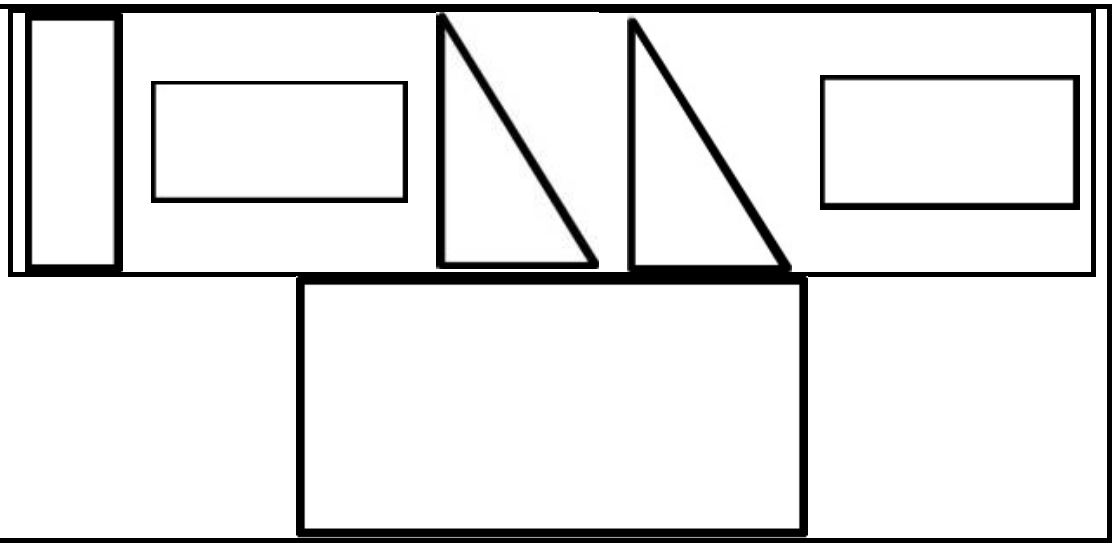

3

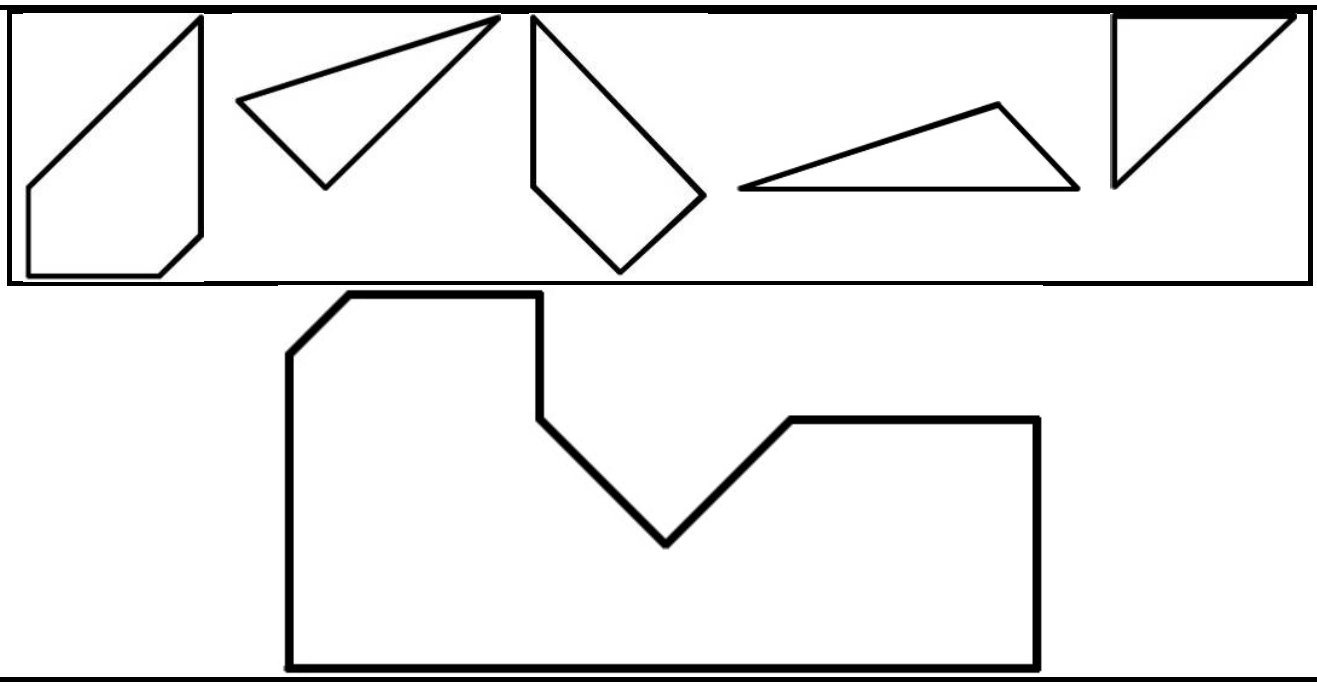

33)

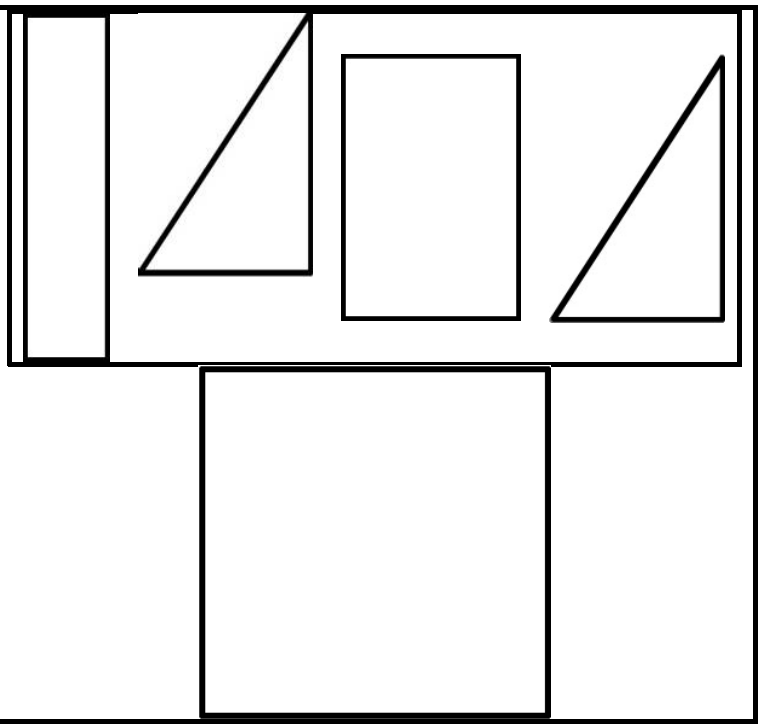

34)



TIEMPO
50 MIN

35)

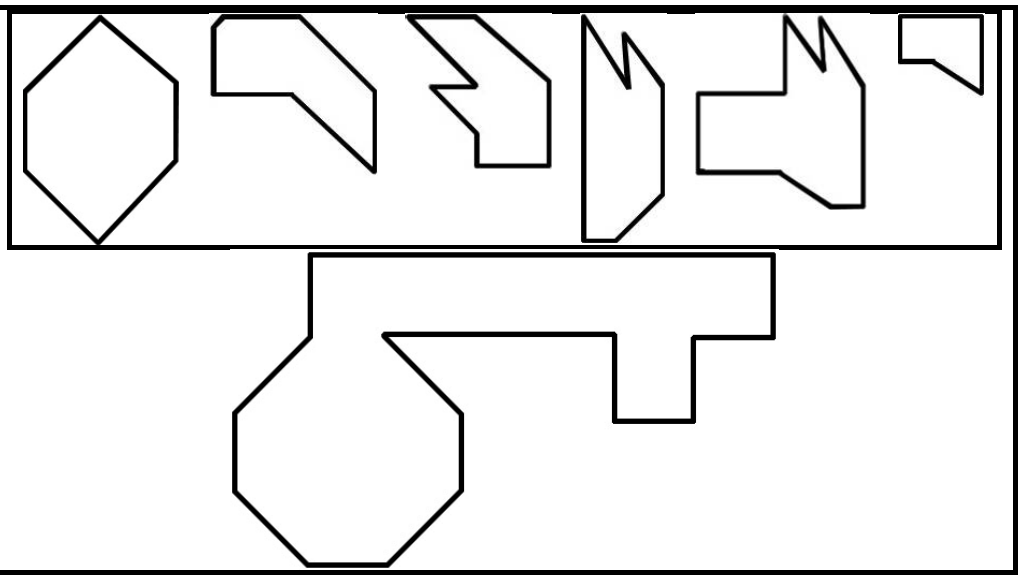

36)

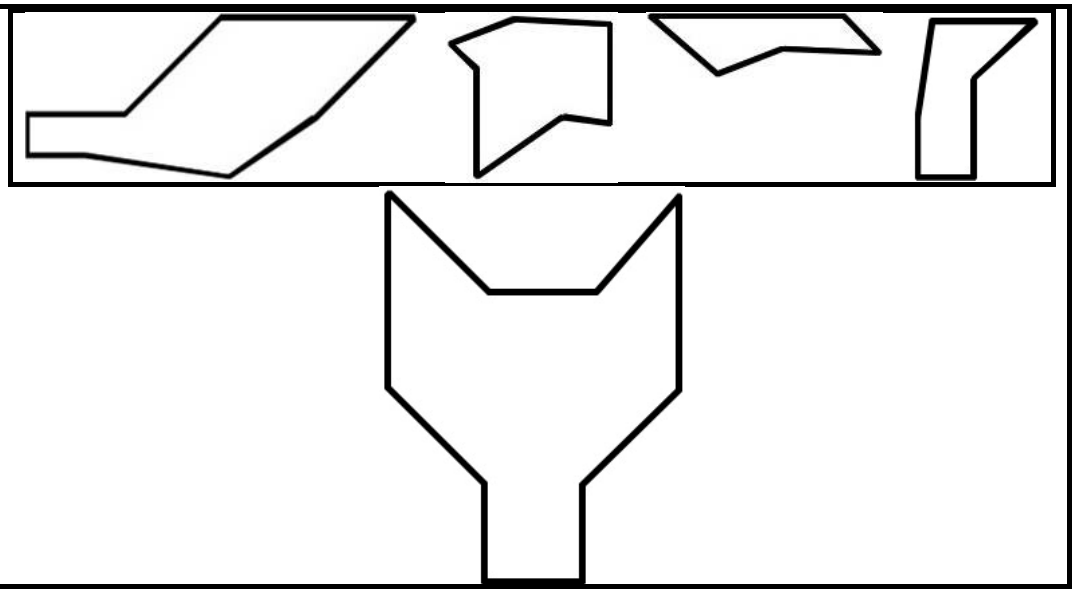

TIEMPO
50 MIN

En los siguientes ejercicios deberá marcar la alternativa que contenga el cubo que puede formarse con la plantilla modelo. En el caso de que más de un cuadrado se corresponda ó ninguno lo haga marque E.

37)

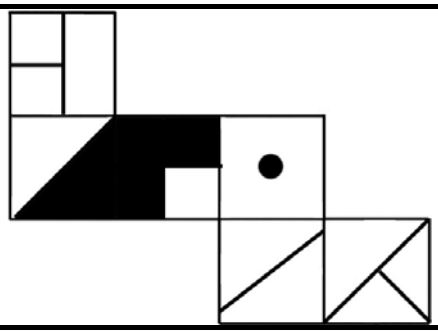

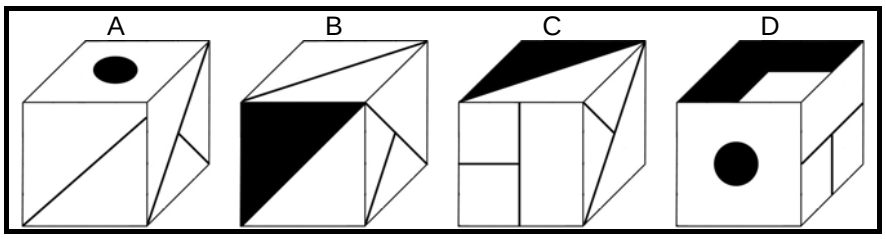

38)

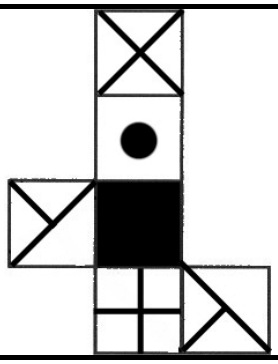

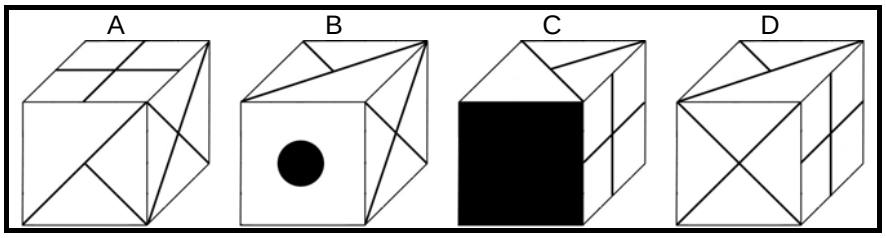

39)

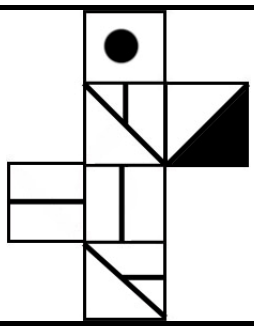

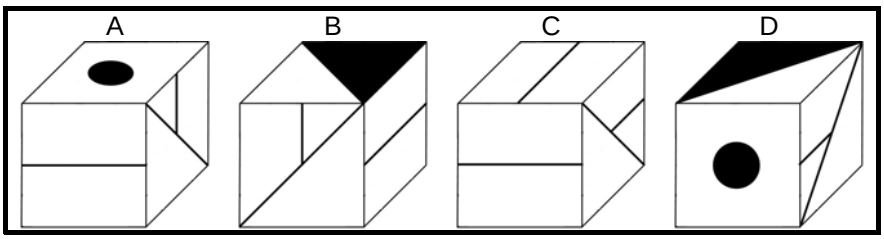

40)

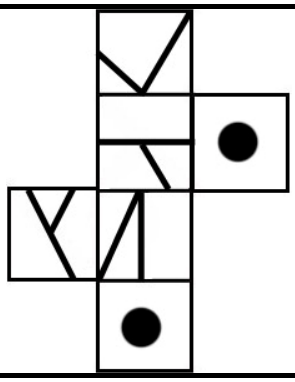

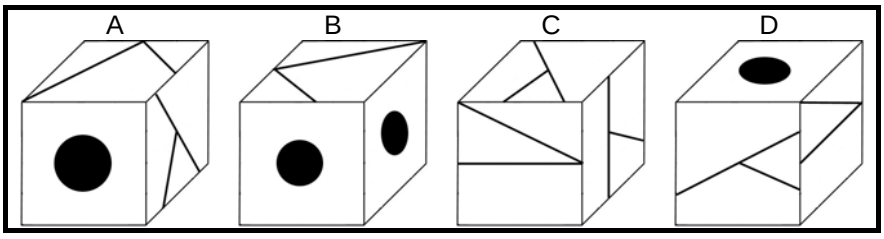

41)

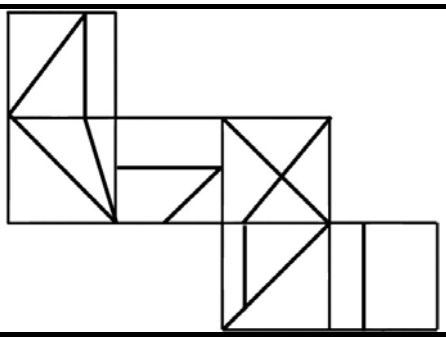

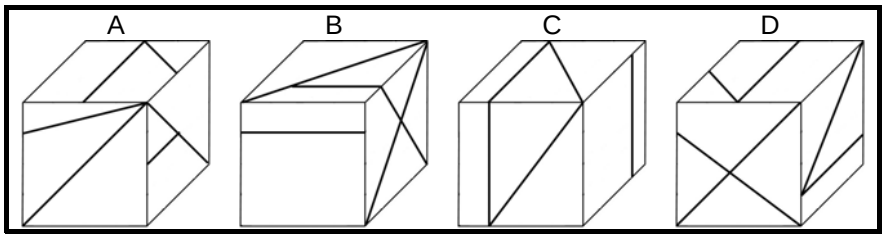

42)

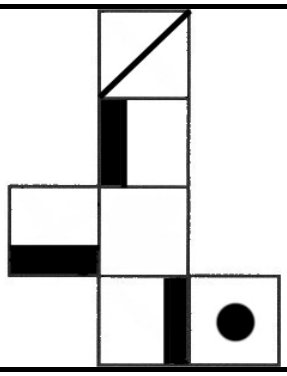

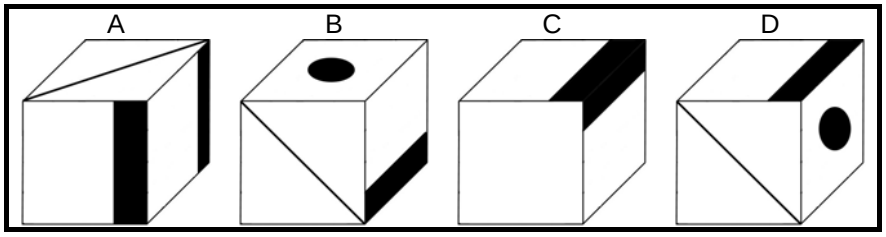

TIEMPO
50 MIN

Resuelva los siguientes ejercicios:

43)

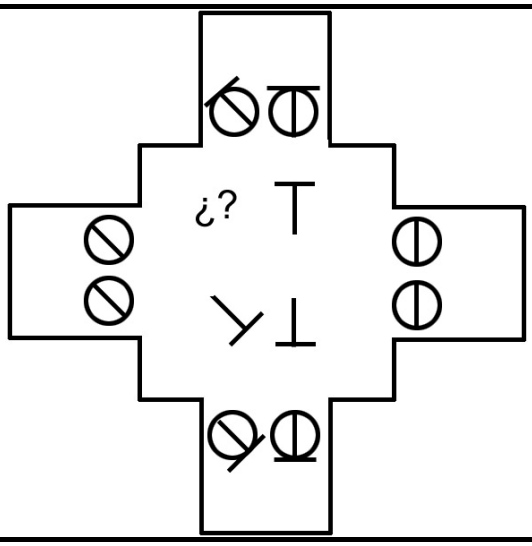

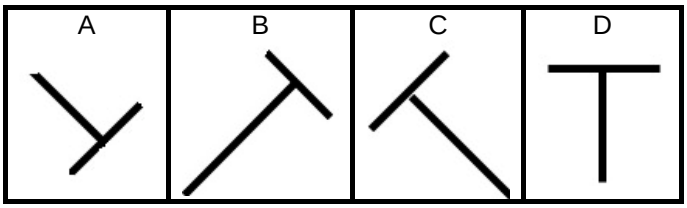

44)

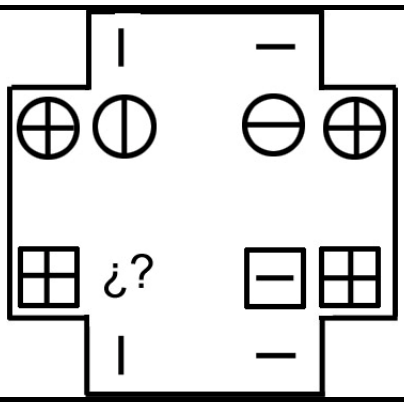

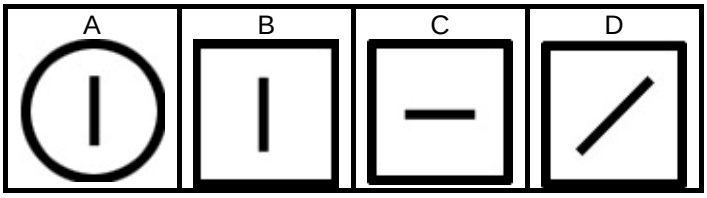

TIEMPO
50 MIN

45)

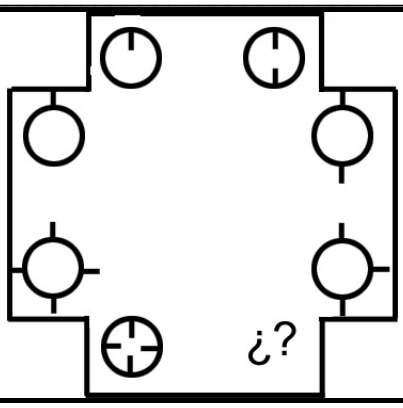

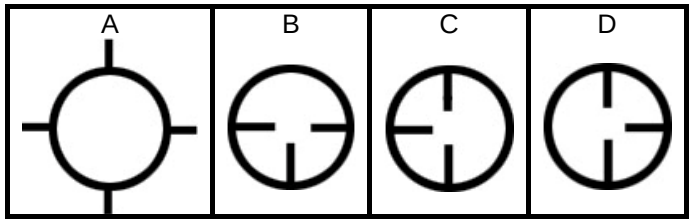

46)

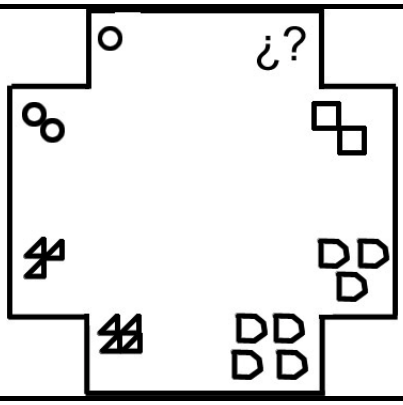

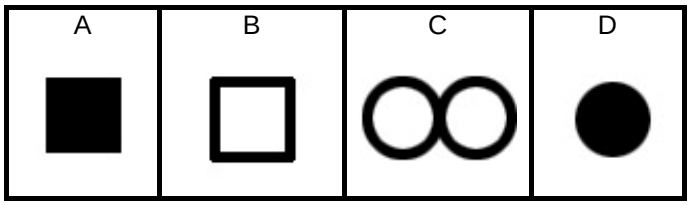

47)

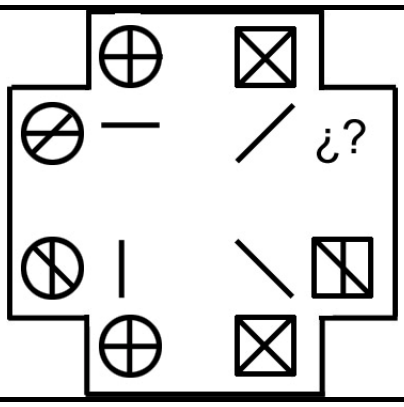

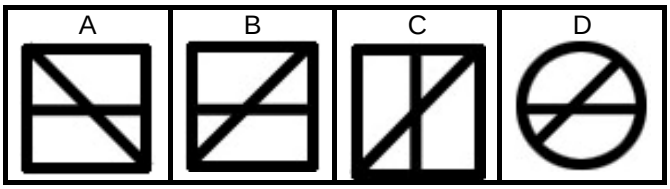

48)

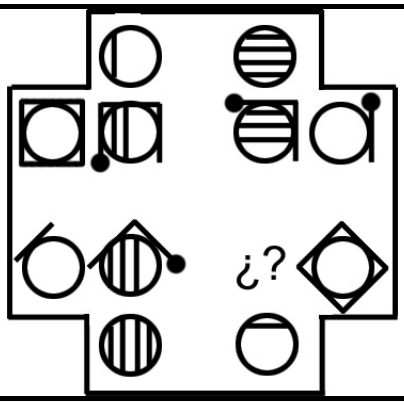

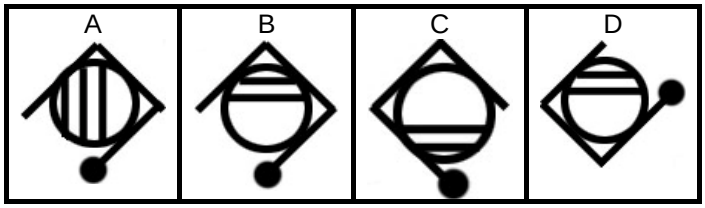

49)

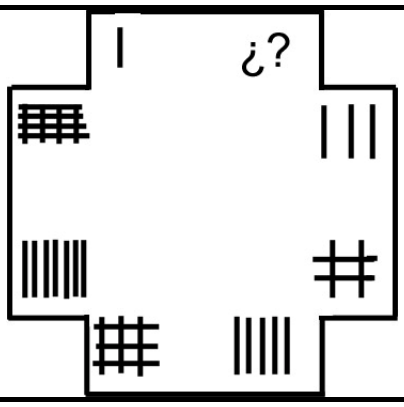

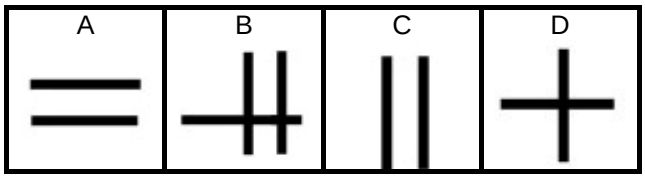

50)

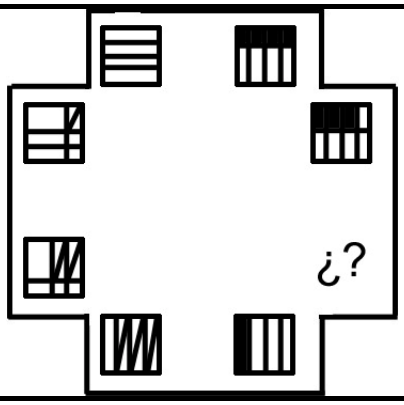

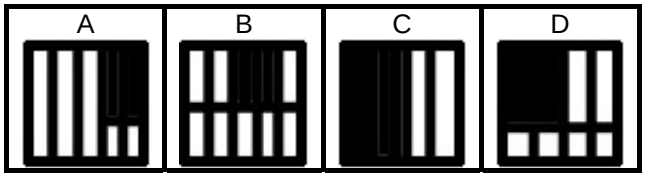

TIEMPO
50 MIN

Marque la alternativa que posee las mismas características que las tres modelo.

51)

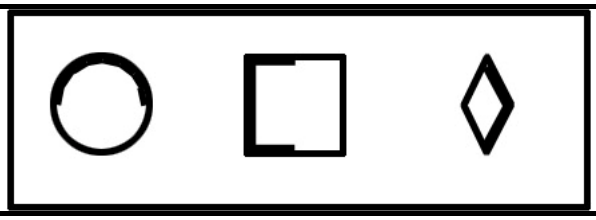

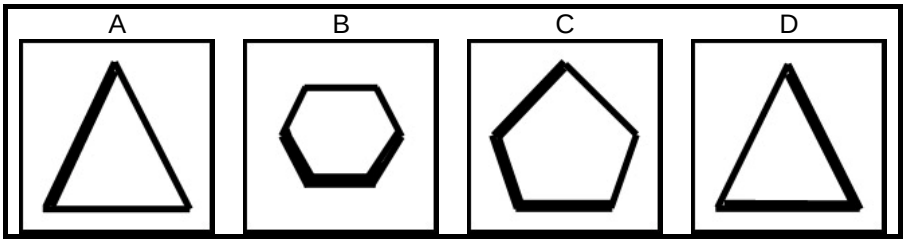

52)



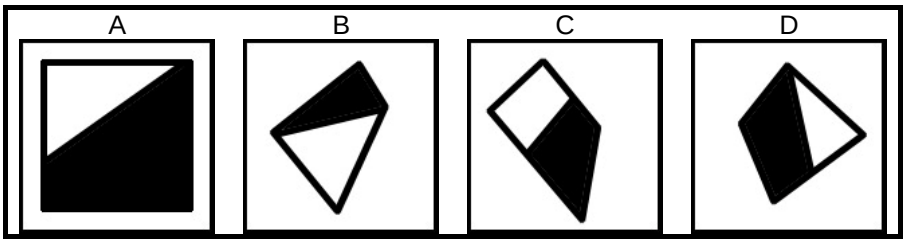

53)

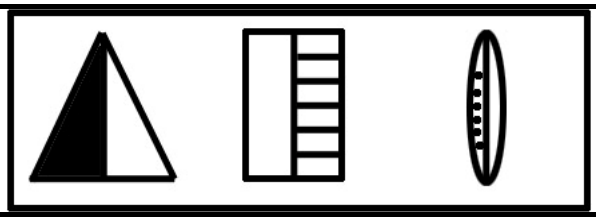

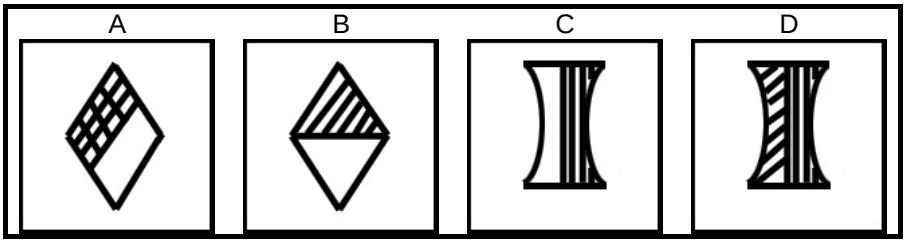

54)



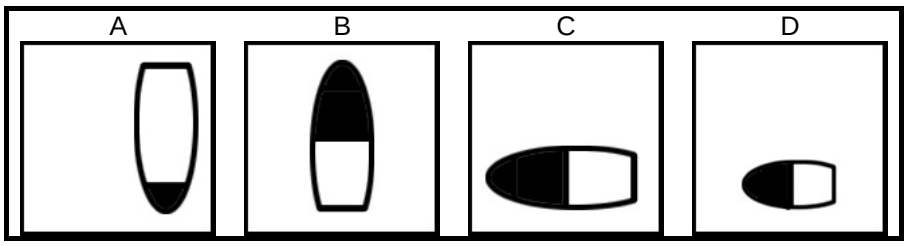

55)



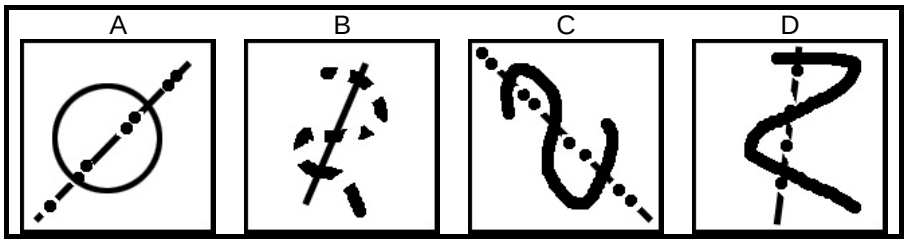

56)

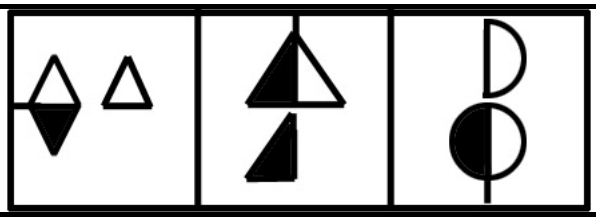

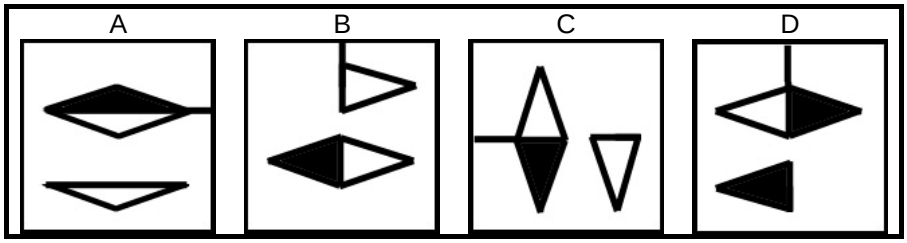

TIEMPO
50 MIN

57)

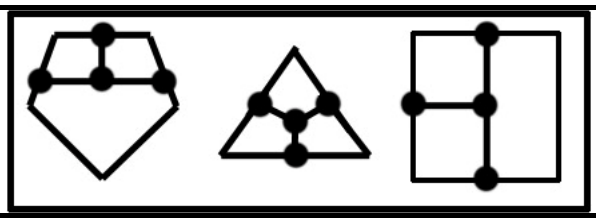

A

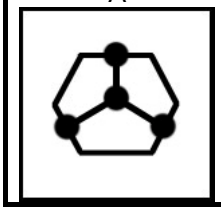

B

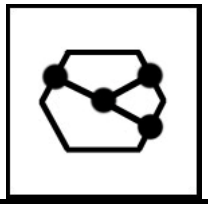

C

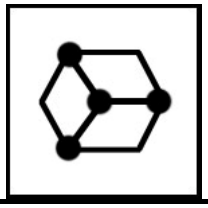

D

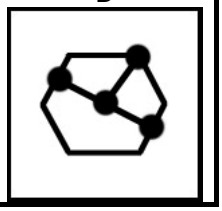

58)

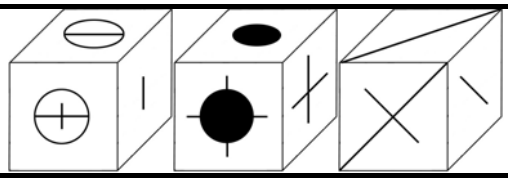

A

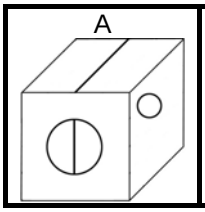

B

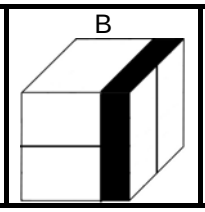

C

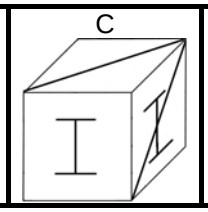

D

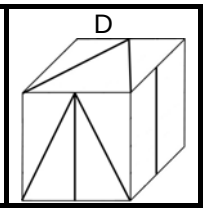

59)

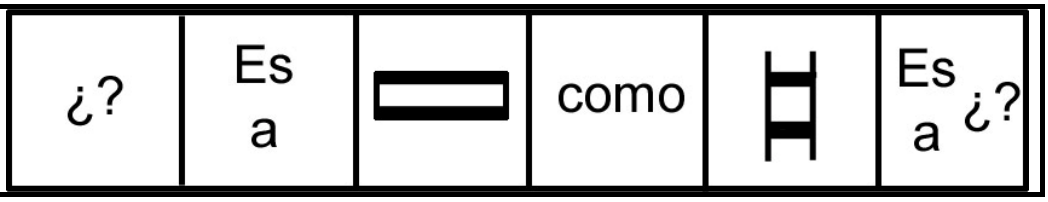

A

B

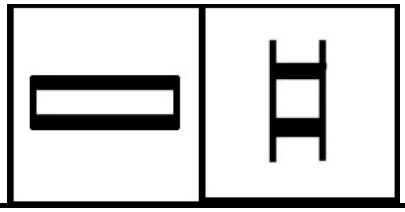

C

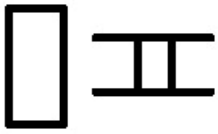

D

60)

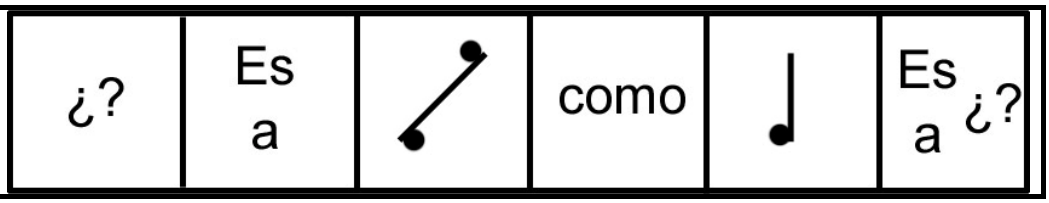
¿?
Es a
como
Es a ¿?

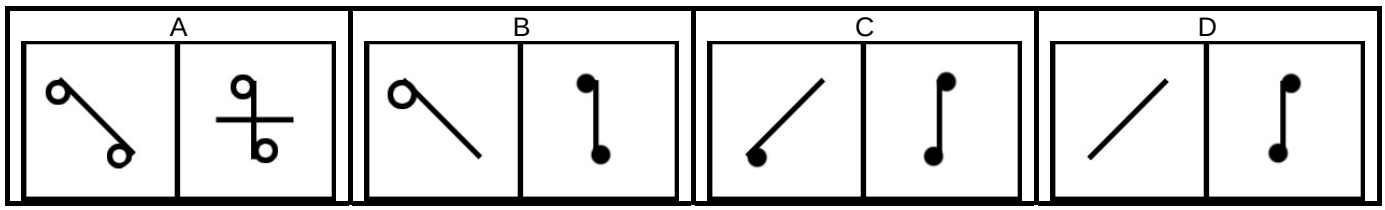
A
B
C
D

61)

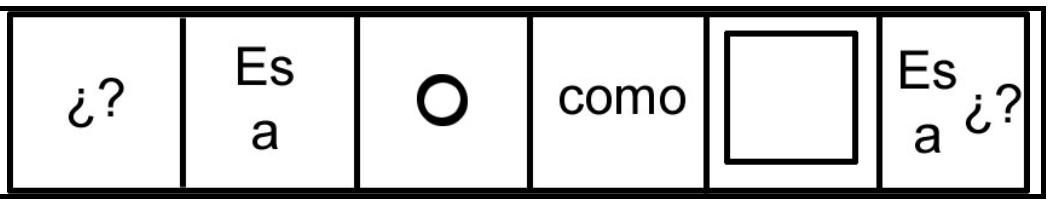
¿?
Es a
como
Es a ¿?

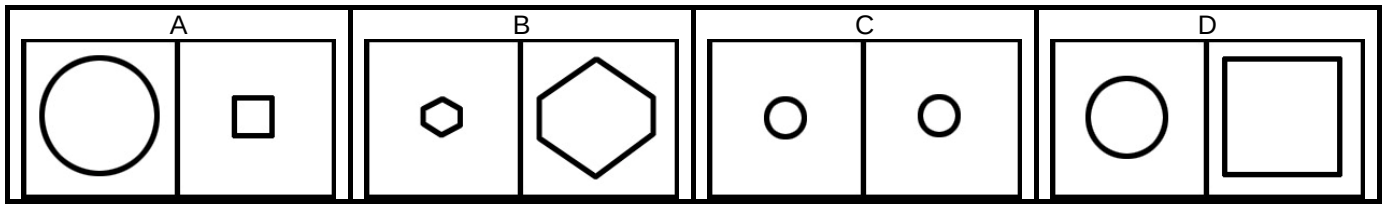
A
B
C
D

62)

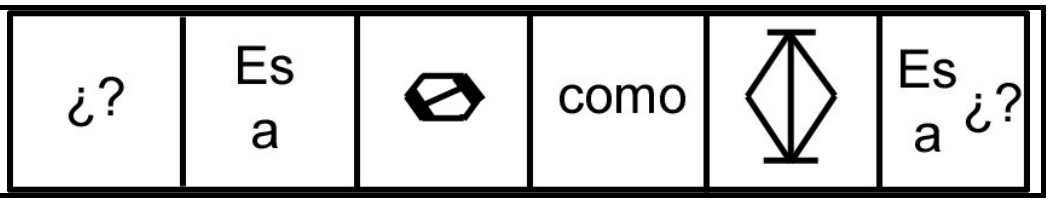
¿?
Es a
como
Es a ¿?

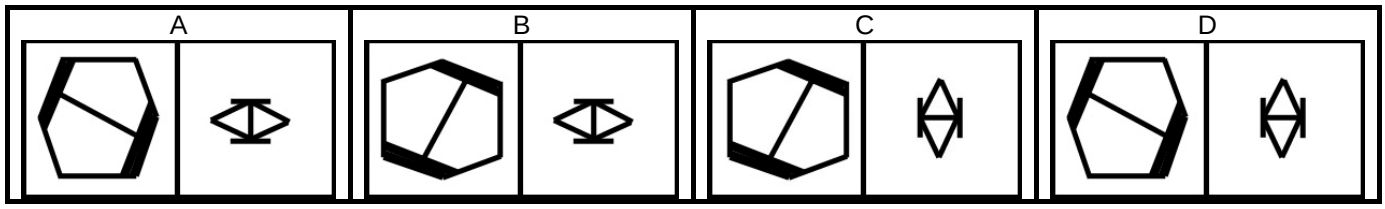
A
B
C
D

63)


¿?
Es a
como
Es a ¿?

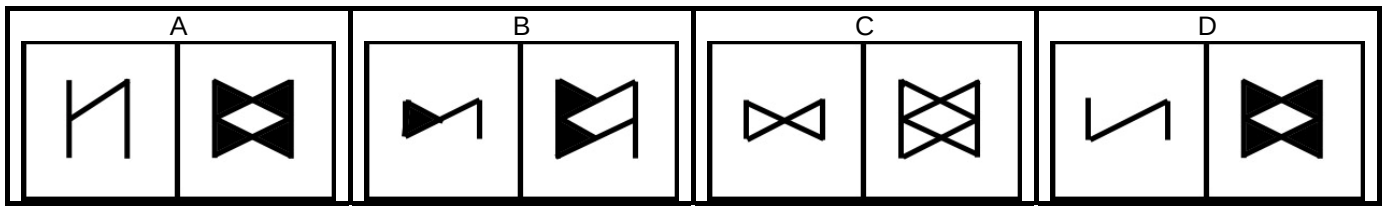
A
B
C
D

64)

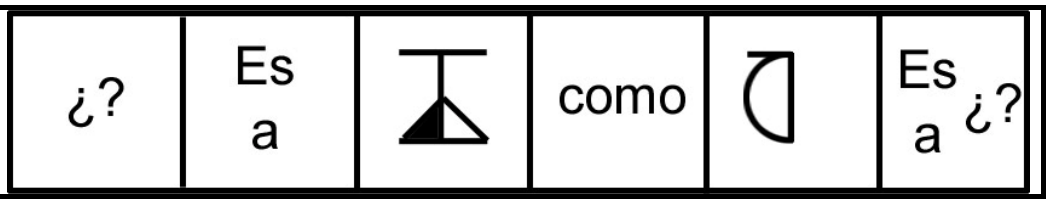
¿?
Es a
como
Es a ¿?

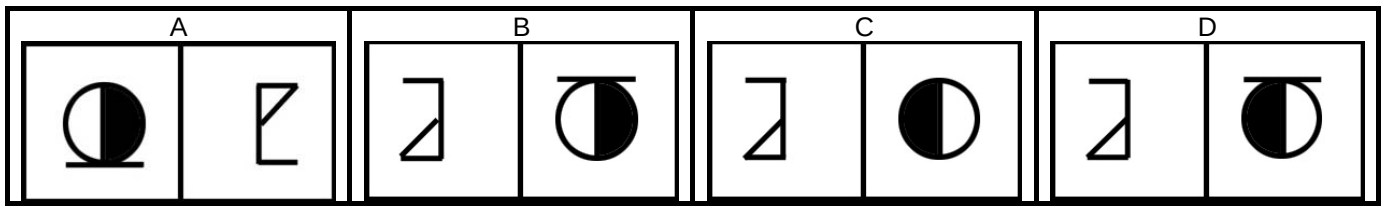
A
B
C
D

65)


¿?
Es a
como
Es a ¿?

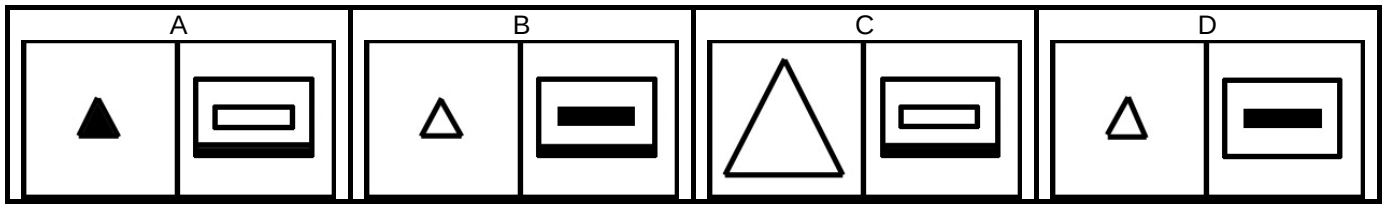
A
B
C
D

66)

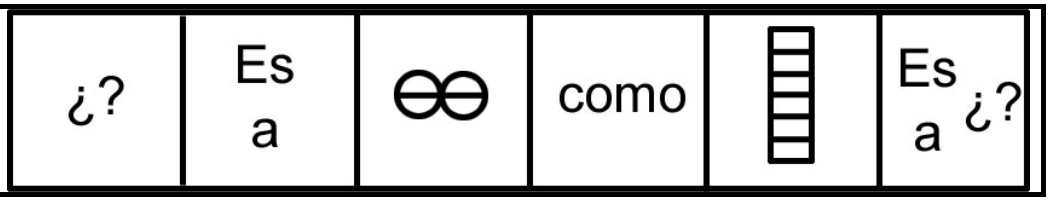
¿?
Es a
como
Es a ¿?

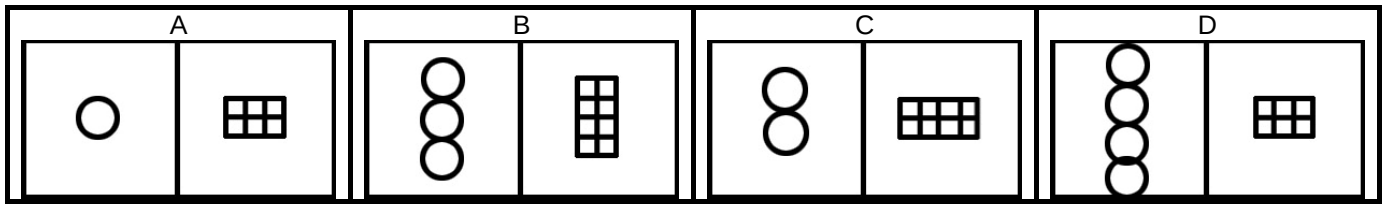
A
B
C
D

67)

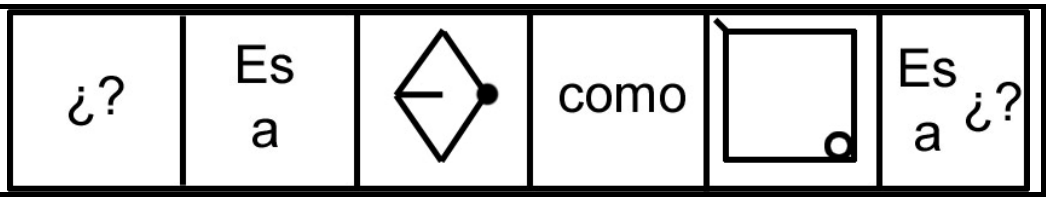
¿?
Es a
como
Es a ¿?

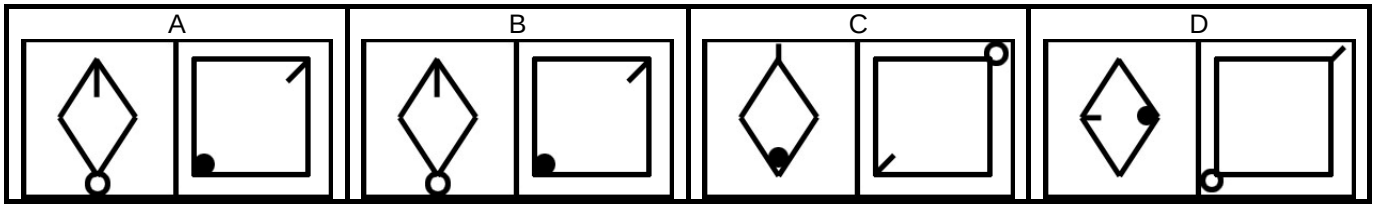
A
B
C
D

Estudie con atención el siguiente cuadro:

๒	๒	๒	๒	๘	๒	๓	๔	๔	๓
๓	๒	๓	๘	๓	๘	๘	๒	๓	๔
๒	๘	๓	๓	๓	๒	๓	๒	๘	๒
๘	๒	๒	๘	๒	๓	๒	๓	๒	๓
๓	๘	๓	๘	๔	๔	๘	๘	๔	๘

68) ¿Cuál es el símbolo que más veces aparece?

a) ๓ b) ๒ c) ๘ d) ๔

69) ¿Cuál es el símbolo que menos veces aparece?

a) ๓ b) ๒ c) ๘ d) ๔

70) ¿Cuántas veces aparece más este símbolo ๒ que este ๘?

a) 3 b) 4 c) 2 d) 5

SOLUCIONES

1) B	11) A	21) AB	31) A	41) C	51) B	61) A
2) D	12) A	22) AB	32) A	42) B	52) B	62) D
3) C	13) A	23) E	33) A	43) C	53) C	63) D
4) D	14) A	24) C	34) A	44) B	54) C	64) D
5) A	15) B	25) C	35) A	45) D	55) C	65) B
6) C	16) D	26) AB	36) A	46) A	56) A	66) D
7) B	17) D	27) D	37) B	47) B	57) A	67) C
8) D	18) C	28) E	38) C	48) B	58) D	68) B
9) A	19) C	29) B	39) D	49) D	59) B	69) D
10) A	20) B	30) B	40) A	50) D	60) C	70) A